FOKURDAK

Kuzey Atlantik Okyanusu kıyılarında bir Boz fok ailesi yaşarmış. Bu Fok ailesinin uykuya düşkün bir de minik boz renkli yavruları olmuş. Ailesi yavru foka Fokurdak ismini vermiş.

Fokurdak anne fokun balık avlamaya gittiği bir gün uykusundan uyanıvermiş. Gözünü açtığında yamaçtan aşağı doğru kayan alaca penguenleri görmüş. Buzun üstünde sürünerek alaca penguenlerin yanına doğru ilerlemiş. Yamacın başına çıkıp aşağı doğru kendini bırakıvermiş. Fokurdak, alaca penguenlerle kayarken çok eğlenmiş hepsini çok sevmiş. Alaca penguenler gibi davranmaya başlayıp onlarla yaşamaya karar vermiş. Havanın da kararmaya başlamasıyla alaca penguenler yuvalarına doğru yürümeye başlamışlar. Fokurdak takılmış alaca penguenlerin peşine. Karnı da epeyce açmış. Anne penguen akşam yemeği için mürekkep balığı avlamış yavru penguenlere paylaştırıyormuş. Bir parça da Fokurdak'a vermiş. Alaca penguenler yemeklerini iştahla bitirirken Fokurdak yemeği tatmış ancak yiyememiş. Aç kalan fokurdak kenara çekilmiş ve uykuya dalmış. Fokurdak'ın sesinden uyuyamayan penguenler yuvadan ayrılmışlar. Sabahın ışıklarıyla gözünü açan Fokurdak yuvada alaca penguenleri göremeyince başlamış ağlamaya. Fokurda'ın annesi alaca penguenlerin yuvasında olduğunu anne penguenden öğrenip, onu almaya gelmiş. Penguenlere özenen Fokurdağa annesi Fokların da pek çok canlıda bulunmayan güzel yönleri olduğunu söylemiş. Fokların çok hızlı yüzebilen, hem suda hem buzun altında uzun zaman yaşayabilen ender canlılardan olduğunu, uzun bıyıkları sayesinde yönlerini bulabildiklerini ve hiçbir zaman yönlerini kaybetmediklerini anlatmış.

Kendi özelliklerini fark ederek eve dönmeye ikna olan Fokurdak annesiyle yuvasına dönmüş. O günden sonra da farklı canlılara özenmemiş.

❖ *Aşağıdaki soruları metne göre cevaplayalım.*

1. Ailesi yavru foka neden Fokurdak adını vermiş?

Çok uyuduğu ve uyurken sürekli fokurtu sesi çıkardığı için.

2. Alaca penguenlerin akşam yemeğinde ne varmış?

Mürekkep balığı varmış.

3. Annesi Fokurdak'ı eve dönmeye nasıl ikna etmiş?

Foklarında özel hayvanlar olduğunu anlatarak ikna etmiş.

❖ *Aşağıdaki kelimelerin anlamlarını bulup cümle içinde kullanalım.*

boz

Anlamı: Açık toprak rengi.

Cümle: Ormanda boz ayı gördüm.

ender

Anlamı: Çok az bulunan.

Cümle: Kaplan ülkemizde ender görülen bir hayvandır.

www.ilkokulluyum.com

❖ *Aşağıdaki kelimelerden doğru yazılanlara (D), yazımı hatalı olanlara (Y) yazalım.*

Fayiz (Y)	Herkez (Y)	Fotokobi (Y)
Şöför (Y)	Maydanoz (D)	Kibrit (D)
Çember (D)	Şarz (Y)	Eşki (Y)
Antlaşma (D)	Orjinal (Y)	Şohben (Y)

❖ *Aşağıdaki sesteş kelimeleri iki farklı anlamıyla cümle içinde kullanalım.*

bin

1. Anlamı: Babamın maaşına bu ay bin lira zam yapıldı.
2. Anlamı: Parkta salıncağa binmek için iki saat sıra bekledim.

ben

1. Anlamı: Bu hafta yapılan deneme sınavında ben birinci oldum.
2. Anlamı: Abimin yüzündeki ben günden güne büyüdü.

❖ *Aşağıdaki cümlelerdeki altı çizili kelimelerin eş anlamlılarını kullanarak cümleleri tekrar yazalım.*

➢ Elimizdeki imkanların tümünü sana kullandık.

Elimizdeki olanakların tümünü sana kullandık.

➢ Geceleri uzun uzun semaya bakar kalırım.

Geceleri uzun uzun gökyüzüne bakar kalırım.

➢ Akşam yaşanan hadisede kimlerin suçu vardı?

Akşam yaşanan olayda kimlerin suçu vardı?

➢ Kuzenimin küçük oğlu çok akıllı bir çocuk.

Kuzenimin küçük oğlu çok uslu bir çocuk.

www.ilkokulluyum.com

❖ *Aşağıdaki şekillerin alanlarını birim kare cinsinden hesaplayalım.*

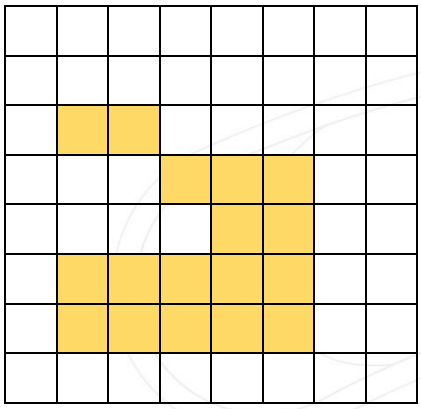

Alan : 17 birim kare

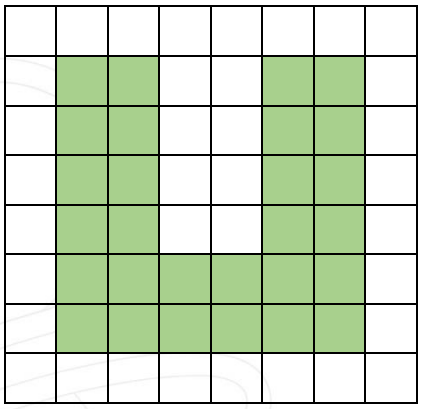

Alan : 28 birim kare

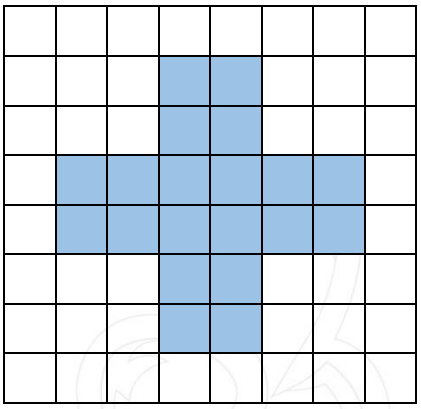

Alan : 20 birim kare

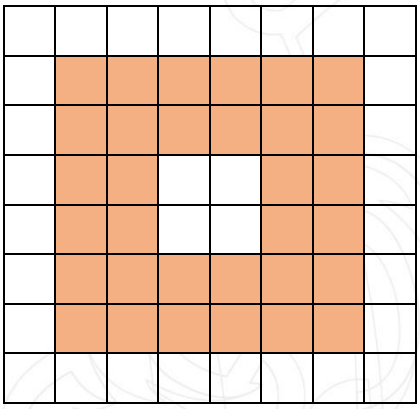

Alan : 32 birim kare

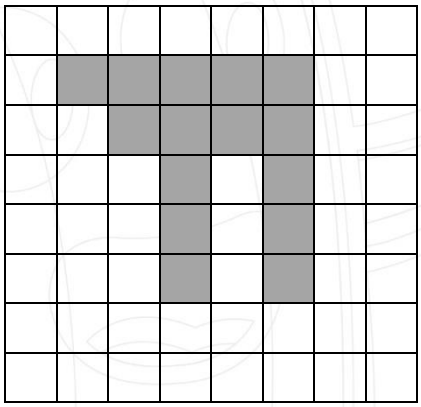

Alan : 15 birim kare

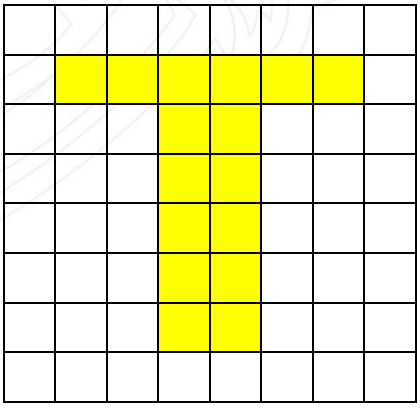

Alan : 16 birim kare

❖ *Aşağıdaki çevirilerini hesaplayalım.*

13 litre 26 yarım litre eder.

9 litre 18 yarım litre eder.

21 litre 42 yarım litre eder.

18 litre 36 yarım litre eder.

5 litre 10 yarım litre eder.

20 yarım litre 10 litre eder.

16 yarım litre 8 litre eder.

8 yarım litre 4 litre eder.

46 yarım litre 23 litre eder.

34 yarım litre 17 litre eder.

❖ *Aşağıdaki soruları cevaplayalım.*

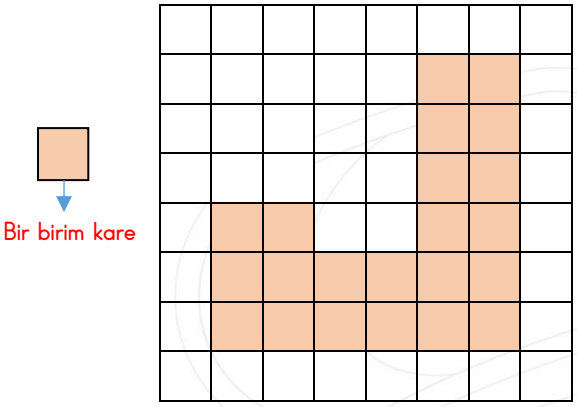

1. Yukarıdaki şekilde boyalı alan boyasız alandan kaç birim kare eksiktir?

A. 42 B. 44 C. 64

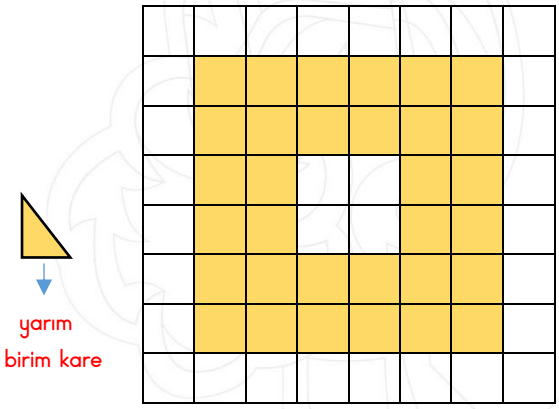

2. Yukarıdaki şeklin boyalı kısmı kaç yarım birim kareden oluşur?

A. 30 B. 90 C. 60

3. Bir inekten 8 L süt sağan Ali Amca 96 litre sütü kaç inekten sağar?

A. 12 B. 11 C. 13

4. Yukarıdaki damacana yanındaki sürahiyi 3 kez doldurduğunda damacanada 1 L su kalıyor. Buna göre sürahi kaç litre su almaktadır?

A. 3 B. 4 C. 5

5. Yukarıdaki çocuk 2 haftada kaç litre süt tüketir?

A. 7 B. 6 C. 14

6. Aslı 64 litrelik kovayı yarım litrelik bir tas ile doldurmak istiyor. Aslı kovanın tam olarak dolması için kaç tas su kullanmalıdır?

A. 32 B. 128 C. 64

ELEKTRİK ÜNİTE TESTİ

1. Aşağıdakilerden hangisi şehir elektriğinin üretilmesinde kullanılan kaynaklardan biri değildir?

A. Su
B. Toprak
C. Güneş

I. Kombi
II. Elektrik süpürgesi
III. Klima

2. Yukarıdaki elektrikli aletlerden hangilerini ısınma amaçlı kullanırız?

A. Yalnız I
B. I ve II
C. I ve III

Şehir Elektriği	Batarya	Pil
1. Ütü	4. Laptop	7. El feneri
2. Televizyon	5. Şarjlı matkap	8. Kumanda
3. Cep telefonu	6. Tost makinesi	9. Oyuncak

3. Yukarıdaki tabloda elektrikli aletler, çalışırken kullandıkları kaynaklara göre listelenirken hata yapılmıştır. Yapılan hatayı düzeltmek için hangi ikisi yer değiştirmelidir?

A. 1 ve 6
B. 3 ve 6
C. 3 ve 8

4. Yukarıdaki elektrikli alet aşağıdaki kaynaklardan hangisi ile çalışır?

A. Pil
B. Batarya
C. Şehir elektriği

I. Prizlere koruyucu kapaklar takmak.
II. Bozulan elektrikli aletlerin içini açıp tamir etmeye çalışmak.
III. Islak elle elektrikli aletlere dokunmamak.

5. Yukarıdakilerden hangileri elektriğin güvenli kullanımına örnektir?

A. I ve II
B. II ve III
C. I ve III

6. Aşağıdaki elektrik kaynakların hangisi taşıtların elektrik ihtiyacını karşılar?

A.
Akü

B.
Pil

C.
Şehir elektriği

❖ *Aşağıdaki görsellerin altına örnekteki gibi gösterdiği yönleri yazalım.*

Pusulanın koyu renkli ucu daima kuzeyi gösterir

Cami minarelerinin kapıları güneyi gösterir

Karınca yuvalarının ağzı daima güneyi gösterir

Kutup yıldızı daima kuzeyi gösterir

Ağaçların yosunlu tarafları daima kuzeyi gösterir

❖ *Aşağıdaki soruları cevaplayalım.*

I. Yön, en kolay ve doğru olarak pusula ile bulunur.
II. Pusulanın renkli ucu her zaman güneyi gösterir.
III. Pusulayı sadece denizciler kullanabilir.

1. Yukarıdaki bilgilerden hangileri doğrudur?

A. I ve II
B. I ve III
C. Yalnız I

2. Güneş'ten faydalanarak yönümü nasıl bulurum?

A. Sağ kolumu Güneş'in doğduğu yöne uzatırsam sağım doğu, solum batı, önüm kuzey ve arkam güneyi gösterir.
B. Güneş'in doğduğu yöne yüzümü döndüğümde yüzüm batı, arkam doğu, sağım kuzey ve solum güneyi gösterir.
C. Sırtımı Güneş'in doğduğu yöne dönersem önüm güney, arkam kuzey, sağım doğu ve solum batıyı gösterir.

Yere diktiğim bir dal parçasının gölgesine bakarak yönümü buldum.

3. Yukarıda anlatılan yön bulma yöntemi aşağıdakilerden hangisidir?

A. Güneş'e göre yön bulma.
B. Kutup yıldızıyla yön bulma.
C. Pusula ile yön bulma.

4. Aşağıdakilerden hangisini kullanarak yönümü bulamam?

A. Güneş
B. Saat
C. Bulutlar