KAYIP KANGURU

Ormanın birinde mutlu bir kanguru ailesi yaşardı. Baba kanguru, anne kanguru ve abla kanguru ailelerine yavru kangurunun katılmasını bekliyorlardı. Bu ailenin mutluluğu yavru kangurunun doğmasıyla bir kat daha arttı. Hele abla kanguru kardeşinin doğmasına o kadar çok sevinmişti ki, minik kardeşiyle oynayacağı günlerin hayalini kurmaya başlamıştı bile. Günler günleri kovaladı. Minik kanguru her gün biraz daha büyüdü. Artık kesenin dışına çıkabiliyordu.

Bir gün abla kanguru annesinden izin almadan, Kardeşini kesesine koyup dışarıya çıktı. Dışarıda hava çok güzeldi. Bütün arkadaşları da dışarıda oyun oynuyor olmalıydı. Onların yanına gitmeye karar verdi. Kardeşini arkadaşları da görsün istiyordu. Arkadaşları minik kanguruyu görünce çok sevindiler. Herkes hoplayıp zıplamaya başladı. Minik kanguru da onlar ne yapıyorsa aynılarını yapmaya çalıştı. Çok eğlendi. Ancak yavru kanguru çok yorulduğunu hissetti. İlk defa dışarıda oyun oynuyordu. Temiz hava minik kangurunun uykusunu getirmişti. Hemen ablasının kesesine zıpladı ve orada uykuya daldı. Abla kanguru kendisini o kadar oyuna kaptırmıştı ki, bunu fark edemedi. Bir ara abla kanguru etrafına bakındı. Kardeşi ortalıkta görünmüyordu. Bir kaç kez kardeşine seslendi ama cevap alamadı. Arkadaşlarına sordu. "Biz de görmedik." dediler. Abla kanguru çok endişelendi. Ne yapacağını bilemedi. Arkadaşları ile kardeşini aramaya başladılar. Ama yavru kanguruyu bulamadılar. Abla Kanguru, eve gidip olanı biteni anne ve babasına anlattı. "Ne yapacağız şimdi? Ya başına bir şey geldiyse." diye düşünmeye başladılar ailecek. Hava kararmıştı. Tüm mahalle halkı yavru kanguruyu aramaya başladı. Ama yavru kanguru ortada yoktu. Herkes ne yapalım diye düşünüp karar vermek için yavru kangurunun evinde toplandı. Tam o sırada yavru kanguru ablasının kesesinden fırlayıverdi. Hem de uykusunu almış, neşeli bir şekilde etrafına gülücükler saçıyordu. "Anne çok açıktım." diyerek ortalıkta zıplamaya başladı. Kanguru ailesi ve mahalle halkı sevinçten ne yapacaklarını şaşırmışlardı. Minik kanguruyu ablasının kesesinde aramak akıllarına gelmemişti.

Anne kanguru, abla kanguruya yaklaşıp, "Benden izin almadan bu gibi şeyler yaptığında çok üzülüyorum. Bir daha bizden habersiz kardeşini dışarıya çıkarma. O daha çok küçük" dedi. Zaten çok korkan abla, "Bundan sonra daha dikkatli olmalıyım." diye düşünerek. Neşe içinde zıplayan kardeşinin arkasından sevinçle bakakaldı.

❖ *Aşağıdaki soruları metne göre cevaplayalım.*

1. Kanguru ailesinin mutluluğunu artıran şey nedir?

Yavru kangurunun ailelerine katılması.

2. Uykudan uyanan minik kangurunun ilk sözleri ne olmuş?

Anne çok acıktım.

3. Yorulan minik kanguru nerede uykuya dalmış?

Ablasının kesesinde uykuya dalmış.

❖ *Aşağıdaki kelimelerin anlamlarını bulup cümle içinde kullanalım.*

kese

Anlamı: Keseli hayvanların yavrusunu taşıdığı yer.

Cümle: Kangurular yavrusunu keselerinde taşıyor.

endişe

Anlamı: Kaygı, tasa, üzüntü.

Cümle: Annesini kaybeden çocuk çok endişelendi.

www.ilkokulluyum.com

❖ *Aşağıdaki adlardan özel ad olanlara (Ö), tür adı olanlara (T) yazalım.*

Ayakkabı T	Kızılırmak Ö	Güleç Sokak Ö
Karabaş Ö	İnsan T	Araba T
Dünya Ö	Şekerlik T	İngiltere Ö
Galatasaray Ö	Çiçek T	Köpek T

❖ *Aşağıdaki sesteş kelimeleri iki farklı anlamıyla cümle içinde kullanalım.*

yağ

1. Anlamı: Dün gece çok şiddetli yağmur yağdı.
2. Anlamı: Babam indirimden beş litre yağ almış.

kır

1. Anlamı: Abim halı saha maçında ayağını kırmış.
2. Anlamı: Okul pikniğimizi bu sene kır bahçesinde yaptık.

❖ *Aşağıdaki cümlelerdeki altı çizili kelimelerin zıt anlamlılarını kullanarak yeni cümleler yazalı.*

➢ Markete yeni gelen ürünlere indirim yapılmış.
Son gelen zamlarla maaşımız yetmez oldu.

➢ Arkadaşımın girdiği su çok derin değilmiş.
Suat sığ suya dalınca kafasını çarptı.

➢ Murat'ın üvey kardeşi de bizimle gelecekmiş.
Hakan'ı sanki öz kardeşimmiş gibi seviyorum.

➢ Komşumuzun kızı çok yaramaz bir çocuk.
Uslu çocukları herkes çok sever.

www.ilkokulluyum.com

❖ *Aşağıdaki şekillerin çevre uzunluklarını birim cinsinden yazalım.*

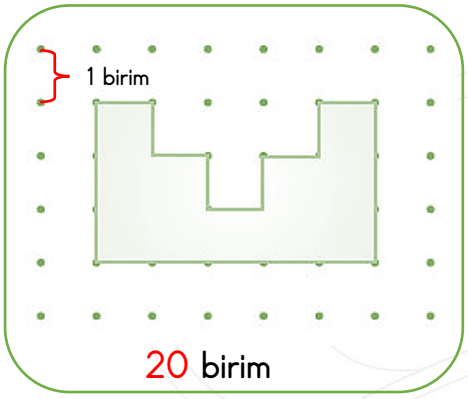

20 birim

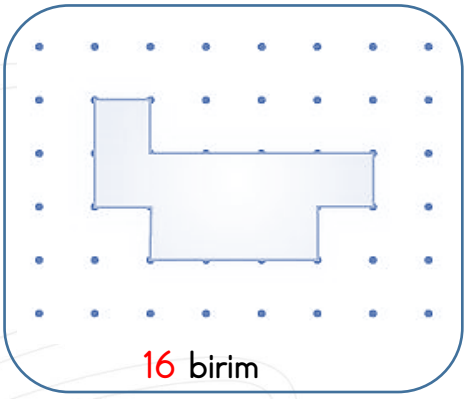

16 birim

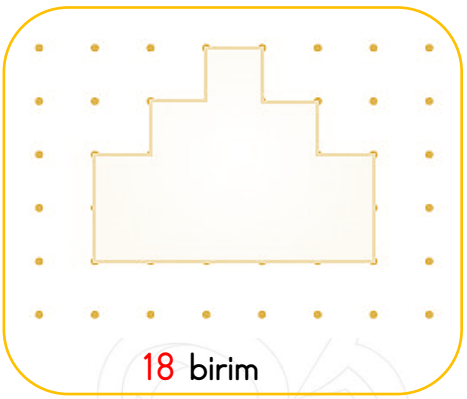

18 birim

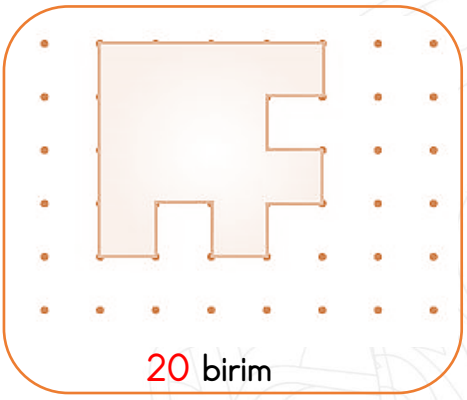

20 birim

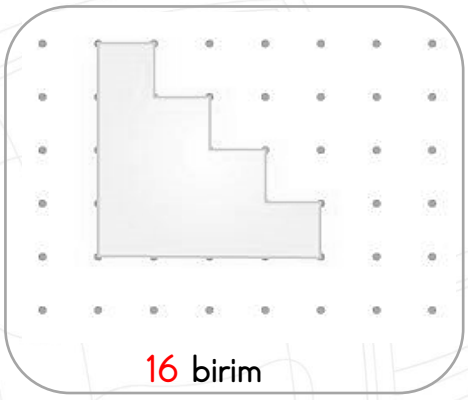

16 birim

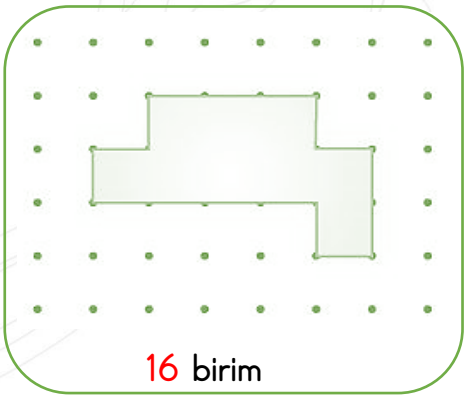

16 birim

❖ *Aşağıdaki geometrik şekillerin çevre uzunluklarını hesaplayalım.*

Çevre: 36 cm

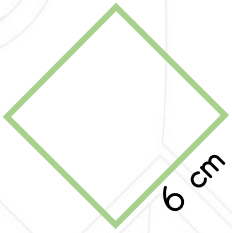

Çevre: 24 cm

Çevre: 20 cm

Çevre: 12 cm

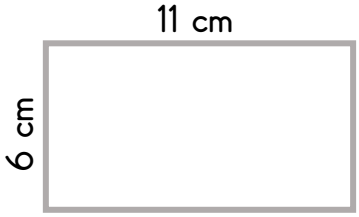

Çevre: 34 cm

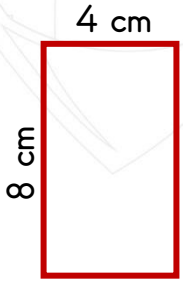

Çevre: 24 cm

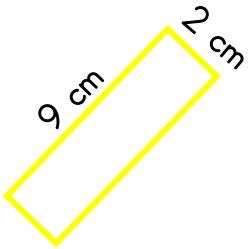

Çevre: 22 cm

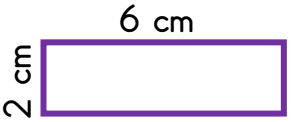

Çevre: 16 cm

ÇEVRE TEST

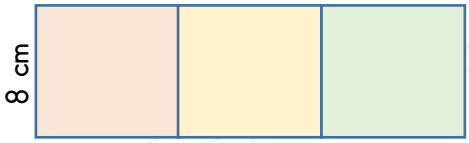

1. 3 tane eş karenin birleşmesiyle oluşan şeklin çevresi kaç cm olur?

A. 80 cm
B. 64 cm
C. 60 cm

2. Dikdörtgen şeklindeki bir tarlanın uzun kenarı kısa kenarının 3 katıdır. Bu tarlanın uzun kenarı 27 metre olduğuna göre çevresi kaç metredir?

A. 216 m
B. 81 m
C. 72 m

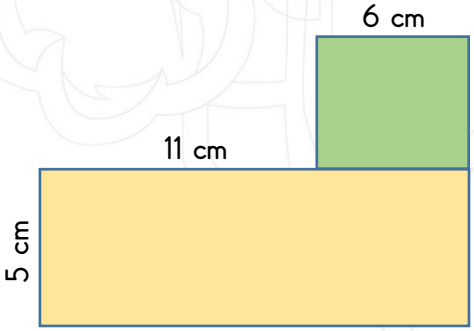

3. Yukarıdaki şekil bir dikdörtgen ve bir karenin birleşmesinden oluşmuştur. Bu şeklin çevresi kaç cm'dir?

A. 23
B. 56
C. 65

4. Murat'ın bir karışı 18cm gelmektedir. Murat dikdörtgen şeklindeki sırasının uzun kenarını 6 karış, kısa kenarını 3 karış ölçmüştür. Buna göre Murat'ın sırasının çevresi kaç cm'dir?

A. 324 cm
B. 18 cm
C. 162 cm

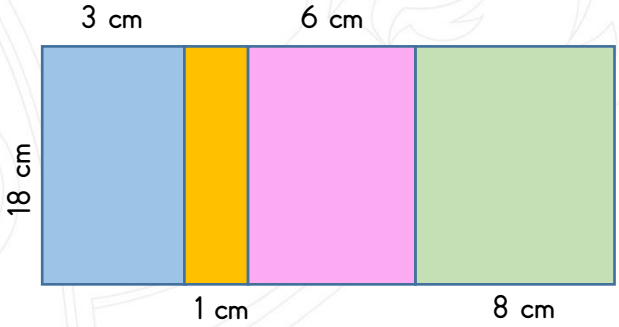

5. Yukarıdaki şeklin çevresi kaç cm'dir?

A. 72 cm
B. 36 cm
C. 144 cm

6. Kare şeklindeki bir bahçenin çevresi 96 metredir. Bu bahçenin bir kenarına duvar örmek istersem kaç metre duvar örmeliyim?

A. 32 cm
B. 28 cm
C. 24 cm

7. Çevresi 112 cm olan bir dikdörtgenin kısa kenarı 25 cm olduğuna göre uzun kenarı kaç cm'dir?

A. 62 cm
B. 31 cm
C. 25 cm

❖ *Aşağıdaki boşlukları uygun kelimelerle dolduralım.*

tehlikelere	prize	uzman	kullanma kılavuzu	yıpranmış	temas

- Evimizdeki .....yıpranmış..... elektrik kablolarını yenileriyle değiştirmemiz gerekir.
- Elektrikli aletleri kullanmaya başlamadan önce mutlaka .....kullanma kılavuzu.....na bakmalıyız.
- Elektrikli aletler amacına ve kuralına uygun kullanılmadığında .....tehlikelere..... yol açabilir.
- Elektrikli aletlerin tamiri .....uzman..... kişiler tarafından yapılmalıdır.
- Elektrik çarpan birini gördüğümüzde kesinlikle ona çıplak elle .....temas..... etmemeliyiz.
- Pil ile çalışan elektronik aletleri .....prize..... takmak tehlikeli bir davranıştır.

❖ *Aşağıdaki bilgilerden doğru olanlara (D), yanlış olanlara (Y) yazalım.*

(Y) Sokaktaki elektrik direklerinden kopmuş kabloları tutup kenara çekmeliyiz.

(Y) Evlerimizdeki elektrikli aletler arızalandığında kendimiz tamir etmeyi denemeliyiz.

(D) Evlerimizdeki prizlere koruma kapağı takarak güvenlik önlemi alabiliriz.

(D) Ellerimiz ıslakken ve ayaklarımız çıplakken elektrikli aletlerle temas etmemeliyiz.

(Y) Elektrikli eşyaları evlerde küçük çocukların kullanmasına bazen izin verebiliriz.

❖ *Aşağıdaki soruları cevaplandıralım.*

1. Elektrik akımının insan vücudundan geçerek devreyi tamamlamasına ne denir?

A. Elektrik devresi
B. Elektrik çarpması
C. Kaçak elektrik

2. Aşağıdakilerden hangisinin yapılması doğru değildir?

A. Prizleri çocukların ulaşamayacağı yüksekliğe yapmak.
B. Elektrik kablolarını açıkta bırakmamak.
C. İhtiyacımız olduğunda prizlere birden fazla fiş takmak.

3. Elektrik akımına kapılan birini gördüğümüzde yapacağımız en doğru davranış hangisi olur?

A. Kaçarak hemen oradan uzaklaşmalıyız.
B. Şalteri indirerek elektrik akımını kesmeliyiz.
C. Elimize sert bir cisim alarak akıma kapılan bölgesine vurmalıyız.

❖ *Aşağıdaki boşlukları uygun kelimelerle tamamlayalım.*

Rize | altında | don | Karadeniz

- Portakal, mandalina ve greyfurt .....don..... olayı yaşanan bölgelerde yetişmez.
- Ülkemizde fındık üretiminin büyük bir bölümü .....Karadeniz..... bölgesinde yapılmaktadır.
- Turp, havuç ve patates gibi sebzeler toprağın .....altında..... yetişirler.
- Çay ülkemizde bol yağış alan ve nemli toprakları bulunan .....Rize..... şehrinde yetişmektedir.

❖ *Aşağıdaki meyve ve sebzelerin yetişme koşullarını yanlarına yazalım.*

Sıcak ve nemli iklimlerde yetişir.

Sıcak havayı sever su tutan toprak-larda yetişir.

Kışları ılık, yazları sıcak ve kurak yerleri sever.

❖ *Aşağıdaki soruları cevaplayalım.*

1. Meyve ve sebzelerin yaşamak için en önemli ihtiyaçları aşağıdakilerden hangisidir?

A. Gübre B. Rüzgâr C. Su

2. Aşağıdakilerden hangisi meyve ve sebzelerin yaşam şartlarını en iyi anlatır?

A. Tüm bitkiler sıcak ortamları severler.
B. Soğuk yerlerde hiçbir bitki yetişmez.
C. Bitkilerin yaşamak için ihtiyaç duydukları ortam birbirinden farklı olabilir.

3. Aşağıdaki eşleştirmelerden hangisi doğrudur?

A. Turp → Bitkinin yaprağıdır
B. Fasulye → Bitkinin köküdür.
C. Ayva → Bitkinin meyvesidir.

Kırmızı rengim var. Yazları çok severim. Kulaklara küpe olurum.

4. Yukarıda kendisini tanıtan meyve aşağıda-kilerden hangisidir?

A. Çilek B. Kiraz C. Elma

5. Aşağıdaki meyvelerden hangisi kışın sıcak ha-vaya ihtiyaç duyar?

A.

B.

C.